مدارس العناية الأهلية

أوراق عمل

الفصل الدراسي الثاني العام الدراسي١٤٤٧هـ

١٤٠٧ هـ ١٩٨٦ م
شركة مدارس العناية الاهلية
بناء جيل يؤمن بقدراته

ورقة عمل الأسبوع الحادي عشر

المرحلة	المرحلة الابتدائية		
المادة	رياضيات	الصف	السادس

أولاً – أختار الإجابة الصحيحة:

١	**نقول عن زاويتان أنهما متتامتان اذا كان مجموعهما :**							
	أ	١٨٠ درجة	ب	١٠٠ درجة	ج	٩٠ درجة	د	٦٠ درجة
٢	**نقول عن زاويتان متكاملتان اذا كان مجموعهما :**							
	أ	١٨٠ درجة	ب	١٠٠ درجة	ج	٩٠ درجة	د	٦٠ درجة
٣	**مجموع زوايا المثلث :**							
	أ	١٥٠ درجة	ب	١٨٠ درجة	ج	٩٠ درجة	د	٦٠ درجة
٤	**قيمة س هي :** 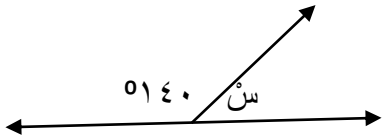							
	أ	س تساوي ٢٠°	ب	س تساوي ٧٠°	ج	س تساوي ٥٠°	د	س تساوي ٤٠°
٥	**يصنف المثلث التالي وفق الزوايا بأنه مثلث: .....** 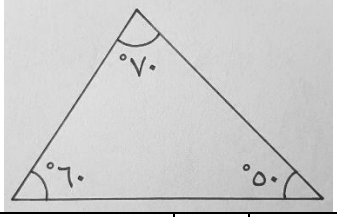							
	أ	حاد الزوايا	ب	منفرج الزواية	ج	قائم الزاوية	د	متطابق الاضلاع والزوايا
٦	**يصنف المثلث التالي حسب الأضلاع بأنه مثلث : .....** 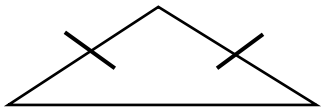							
	أ	متطابق الاضلاع	ب	متطابق الضلعين	ج	مختلف الاضلاع	د	قائم الزوايا

ثانيًا: - صنف كلا من المثلثات الاتية المرسومة او التي أعطيت قياسات زواياه الى :

حاد الزوايا ، أو ، قائم الزاوية ، أو منفرج الزاوية

أ- (٦٥ °، ٥٥ °، ٦٠ °)

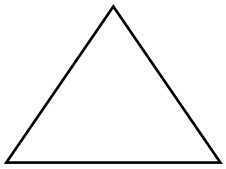

الشكل .....

ب- (٤٥ °، ٤٥ °، س °)

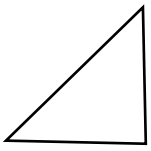

الشكل .....