أوراق عمل
الفصل الدراسي الثاني العام الدراسي ١٤٤٧هـ

ورقة عمل الأسبوع الثاني عشر

المرحلة	المرحلة الابتدائية		
المادة	رياضيات	الصف	الرابع

أولاً – أختر الإجابة الصحيحة:

١	ما الكسر الذي يمثل الجزء المظلل 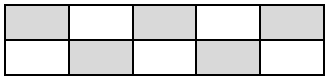						
	أ	٠,٦	ب	٠,٥	ج	٠,٧	د ٠,٨
٢	الكسر العشري ٠,٤ على صورة كسر اعتيادي هو						
	أ	$\frac{٧}{١٠}$	ب	$\frac{٦}{١٠}$	ج	$\frac{٤}{١٠}$	د $\frac{٨}{١٠}$
٣	أكلت وفاء ستة أعشار رغيف الخبز الكسر الذي يمثل ما أكلته وفاء هو						
	أ	٠,٤	ب	٠,٩	ج	٠,٦	د ٠,٣
٤	الكسر العشري الذي يمثل الشكل المقابل 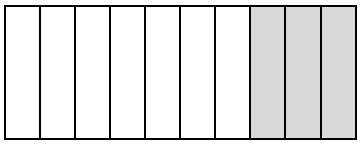						
	أ	٠,٣	ب	٠,٢	ج	٠,١	د ٠,٧
٥	ظللت فاطمة $\frac{٧}{١٠}$ من الشكل ما الكسر العشري الدال على ذلك						
	أ	٠,٢	ب	٠,٥	ج	٠,٩	د ٠,٧
٦	ما الكسر الذي يمثل الجزء المظلل 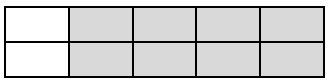						
	أ	٠,٨	ب	٠,٥	ج	٠,٩	د ٠,٧

ثانياً : أجب عن كلاً مما يأتي :

١) اكتب الكسر الاعتيادي على صورة كسر عشري

$\frac{٧}{١٠}$ = ... $\frac{٩}{١٠}$ = ...

٢) اكتب الكسر العشري على صورة كسر اعتيادي

١) ٠,٥= ..... ٢) ٠,٦= .....